NOM & Prénom : …….. T°S$_4$

Annexes du Devoir du 23 mars 2016

Annexe 1 (Exercice 1)

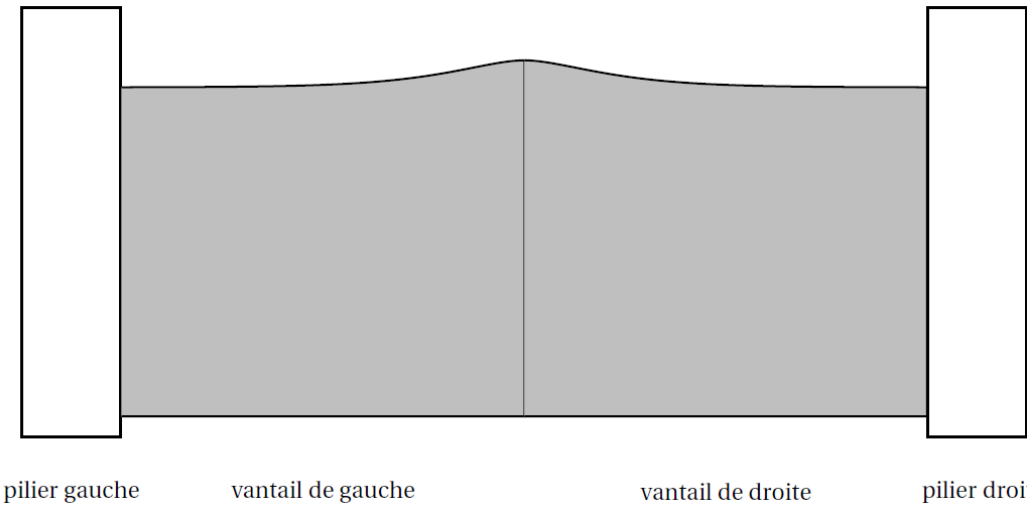

Annexe 2 (Exercice 1)

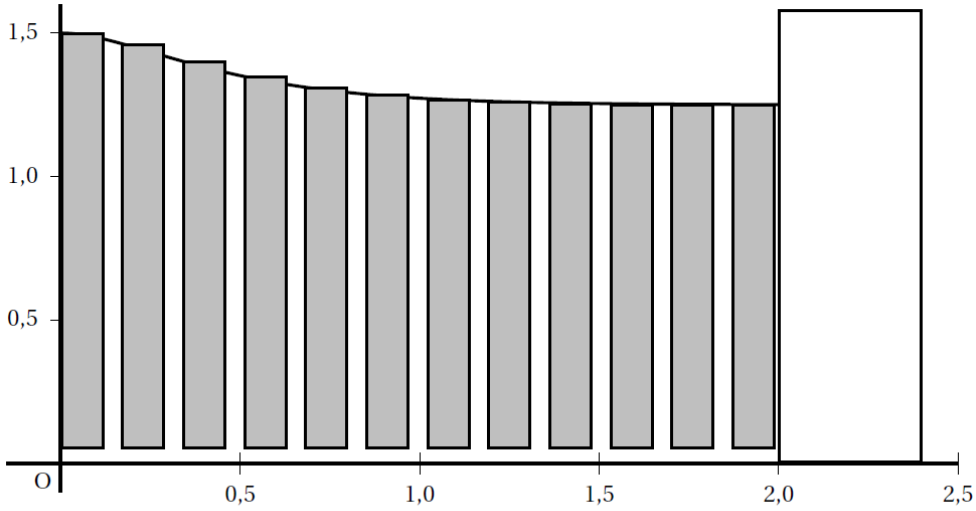

La distance entre le bas du portail et le sol est de 0,05 m.

Annexe 3 (Exercice 1)

Variables :	Les nombres X et S sont des nombres réels
Initialisation :	On affecte à S la valeur 0
	On affecte à X la valeur 0
Traitement :	Tant Que $X + 0{,}17 < \ldots$
	S prend la valeur $S + \ldots$
	X prend la valeur $X + 0{,}17$
	Fin de Tant Que
Affichage :	On affiche S
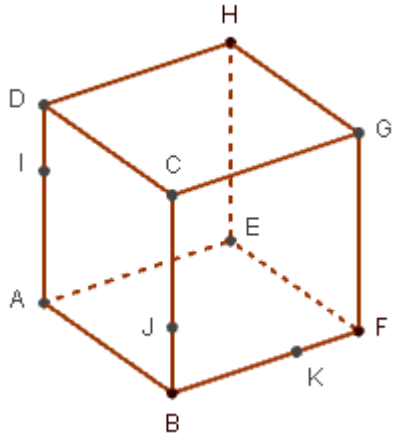
Annexe 4 (Exercice 3)